เสริมทักษะวิชาคณิตศาสตร์ สำหรับเด็กอายุ 7-9 ปี SKYBOOK

แบบฝึก นิทานคณิต Kids สนุก 2

ฝึกคิด ฝึกจินตนาการ
ACTIVITY BOOK

บรรณาธิการอำนวยการ : ฝองเพ็ญ อาชาเทวัญ

บรรณาธิการ : รุ่งโรจน์ อาชาเทวัญ

กองบรรณาธิการ : รัตนา ภูมิพิทักษ์, ฐิติรัตน์ แม้นพยัคฆ์, ธัมม์ ศิริพรมรินทร์, จารุวรรณ เริงรื่น, พนิดา จำเนียรทรัพย์, ภควดี ธรรมสุวรรณ

ออกแบบปก : ฤทธิเดช ฟุ้มท้วม

คอมพิวเตอร์กราฟิก : รุ่งนภา เพาะทรัพย์

พิสูจน์อักษร : สิริพรรณ โพธิ์ศรีสุข

S79-09-01-030-02-18

จัดพิมพ์และจัดจำหน่ายโดย

บริษัท สกายบุ๊กส์ จำกัด

28, 30, 32 ซอยรังสิต-ปทุมธานี 16 ซอย 7 ต.ประชาธิปัตย์ อ.ธัญบุรี จ.ปทุมธานี 12130

โทรศัพท์ 0-2958-1125-7, 0-2567-5119 โทรสาร 0-2567-5105

e-mail: sales@skybook.co.th

www.skybook.co.th

ปุยปุย

พาตะลุย ทะเลหน้าร้อน

ฝึกคิด ฝึกจินตนาการ

ACTIVITY BOOK

คณิต Kids สนุก



ตัวอย่าง

ปุยปุยอาบแดด

1. ปุยปุยเก็บดาวทะเลได้ 20 ตัว หอยตลับ 10 ตัว และหอยมุก 8 ตัว
รวมทั้งหมด ..... ตัว

2. นางเงือกเก็บดาวทะเลได้ 12 ตัว หอยตลับ 7 ตัว และหอยมุก 0 ตัว
รวมทั้งหมด ..... ตัว

3. ปุยปุยกับนางเงือกใครเก็บของทั้งหมดได้มากกว่ากัน จงใส่เครื่องหมาย
> (มากกว่า) , < (น้อยกว่า)
ปุยปุย ☐ นางเงือก

เฉลย (1) 38 ตัว (2) 22 ตัว (3) >

ปุยปุยเล่นสนุกกับกองทราย

มีหอยมุกอยู่บนชายหาดทั้งหมด 19 ตัว ปุยปุยเก็บหอยมุกสีเนื้อปล่อยลงทะเล จะเหลือหอยมุกบนชายหาดกี่ตัว

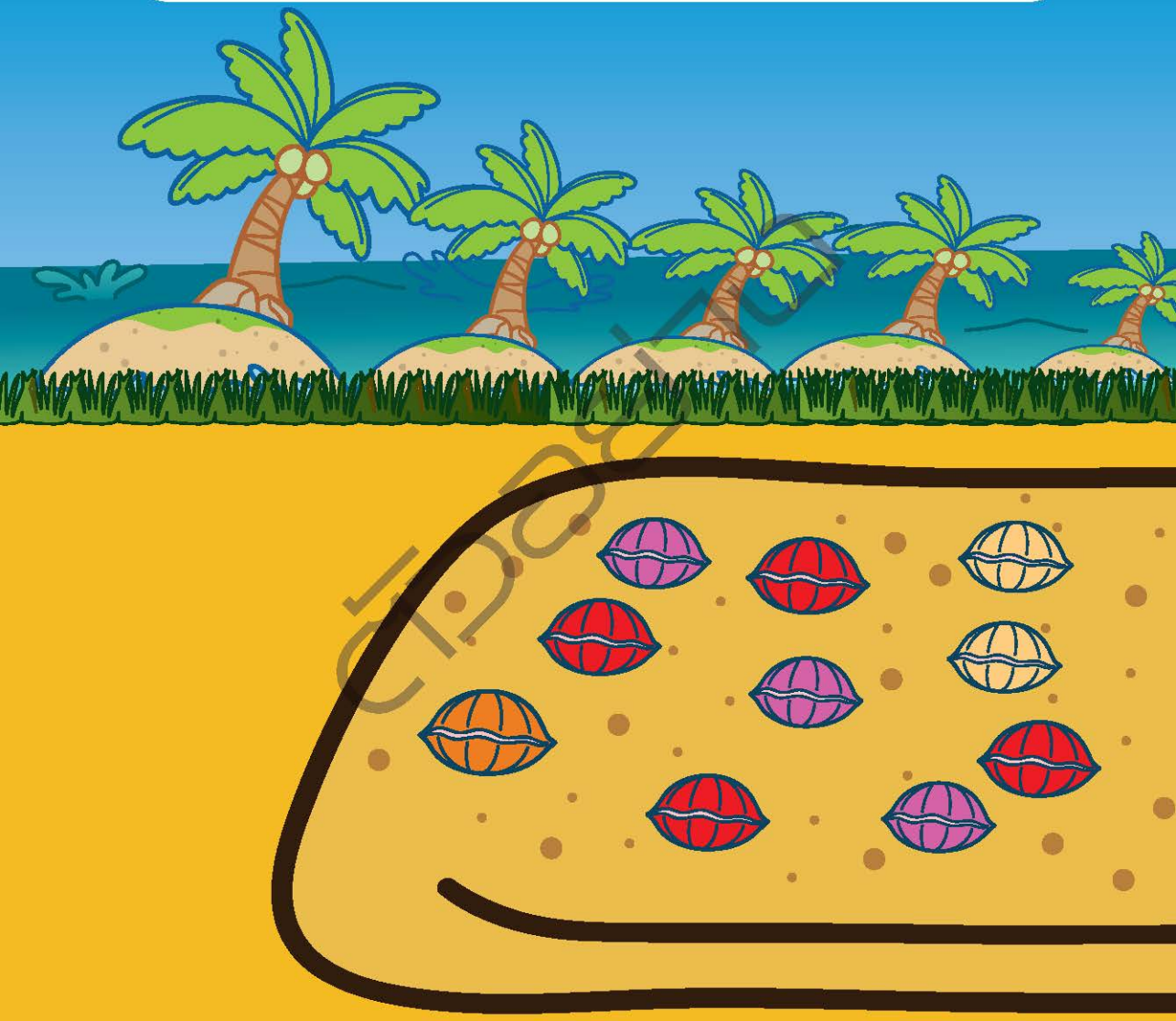

เหลือ 19 − 4 = 15 ตัว

แสดงวิธีทำ _____

คำตอบ _____

ปุยปุยพาล่องเรือ

ช่วยปุยปุยใส่ตัวเลขในช่องว่าง ตามหาตัวเลขใต้น้ำที่หายไป
และบอกหลักเกณฑ์การเรียงลำดับตัวเลข

ตัวอย่าง

(151, 152, 153, 154, 155, 156)

หลักเกณฑ์คือเพิ่มขึ้นทีละ 1

1. 999, 994, ..., ..., 979, 974

(หลักเกณฑ์คือ.....)

2. ....., 143, 244, 345, 446, ...

(หลักเกณฑ์คือ.....)

3. ....., 723, ..., 323, 123

(หลักเกณฑ์คือ.....)

4. 250, 300, 350, ..., 450, ...

(หลักเกณฑ์คือ.....)

เฉลย (1) 999, 994 ลดลงทีละ 5 (2) 442, 542 เพิ่มขึ้นทีละ 101

(3) 920, 520 ลดลงทีละ 200 (4) 400, 500 เพิ่มขึ้นทีละ 50

ปุยปุยขายของ

นำราคาของแมงกะพรุน หมึก และปลา มาตอบคำถามต่อไปนี้



1. ถ้าปุยปุยขายแมงกะพรุน หมึก ปลา ได้หมดร้าน ปุยปุยจะได้เงิน ..... บาท

2. ถ้าปุยปุยขายแมงกะพรุน 3 ตัว หมึก 2 ตัว ปลา 1 ตัว ปุยปุยจะได้เงิน ..... บาท

เฉลย (1) 720 บาท (2) 400 บาท

ปุยปุยพบนางเงือก

ช่วยปุยปุยหาจำนวนนับที่บวกหรือลบแล้วได้ตามคำตอบที่กำหนดให้

1. เลขใดบวก 9 ได้ 12

9 + ☐ = 12

2. เลขใดลบ 12 เหลือ 8

12 − ☐ = 8

3. เลขใดบวก 7 ได้ 19

7 + ☐ = 19

4. เลขใดลบ 15 เหลือ 7

15 − ☐ = 7

ตัวอย่าง

เฉลย (1) 3, (2) 4, (3) 12, (4) 8

ปุยปุยผจญภัยใต้ทะเล

ช่วยปุยปุยเลือกเส้นทางที่บวกกันแล้วได้ผลลัพธ์ 158 และแสดงวิธีทำ

ปุยปุยต้องการไปหาสมบัติ
ช่วยปุยปุยหาเส้นทางที่จะไปกันเถอะ

ตัวอย่าง

วิธีทำ .....

คำตอบ .....

เฉลย 66+47+55=158

ชุด นิทานคณิต Kids สนุก

4-6 ปี

7-9 ปี

10-12 ปี

เทคนิคช่วยให้เด็กเก่งคณิต

หนังสือนิทาน เรียนรู้คณิตศาสตร์ เสริมสร้างจินตนาการ

เด็กบางคนมองคณิตศาสตร์เป็นเรื่องยาก

ไม่สนุก ไม่ชอบ ไม่อยากเรียน

ถ้ามีใครทำให้เด็กสนุกกับคณิตศาสตร์ได้เป็นเรื่องดี

ตัวอย่าง

จัดพิมพ์และจำหน่ายโดย

บริษัท สกายบุ๊กส์ จำกัด
SKYBOOK COMPANY LIMITED
25, 30, 32 ซอยอังสิต-ปทุมธานี 16 ซอย 7
ต.ประชาธิปัตย์ อ.ธัญบุรี จ.ปทุมธานี 12130
โทรศัพท์ 0-2958-1125-7, 0-2567-5119 โทรสาร 0-2567-5105
www.skybook.co.th e-mail: sales@skybook.co.th

แบบฝึก
นิทานคณิต Kids สนุก 2
ISBN 978-616-213-420-3
9 786162 134203
ราคา 49 บาท